Schriftliche Subtraktion

Beispiel

77 − 34 = 43

	Z	E
	7	7
–	3	4
	4	3

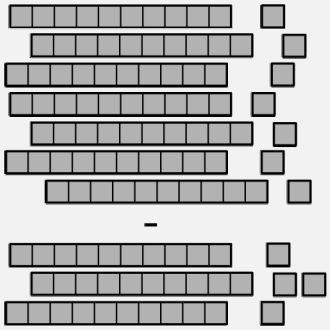

1 Übersetze in eine schriftliche Subtraktion

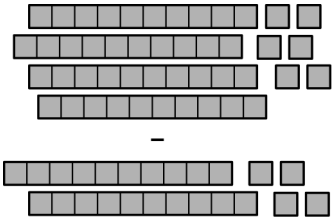

	Z	E
	4	6
–		

2 Subtrahiere schriftlich.

	Z	E
	4	7
–	2	5

	Z	E
	5	9
–	4	0

	Z	E
	8	7
–	5	4

3 Schreibe die Aufgaben untereinander und rechne aus.

37 – 16 = ☐ 49 – 27 = ☐ 177 – 57 = ☐

4 Das sind Rechenmauern. Subtrahiere die Zahlen benachbarter Steine.

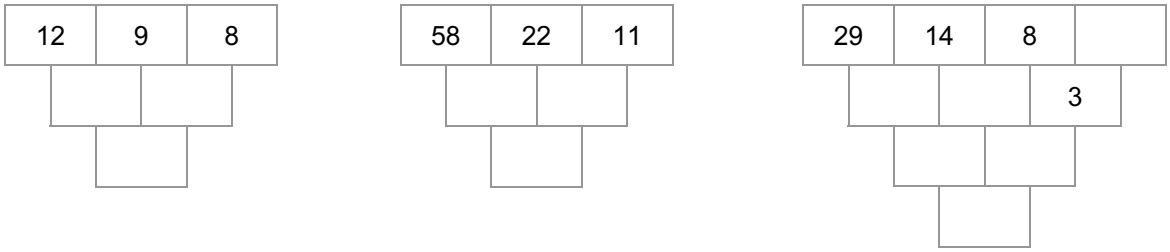

5 Die Klassen 5 a und 5 b haben Wandertag.

a) In der 5 a und 5 b sind zusammen 52 Schüler.
21 Schüler haben eine Busfahrkarte.

Es müssen noch _____ Schüler Fahrkarten kaufen.

b) Die Lehrer haben für die Getränke 78 € eingesammelt.
Im Freizeitpark bezahlen sie aber nur 52 €.

Es bleiben noch _____ € übrig.

© Ernst Klett Verlag GmbH, Stuttgart 2015 | Alle Rechte vorbehalten.
Von dieser Druckvorlage ist die Vervielfältigung für den eigenen Unterrichtsgebrauch gestattet.

Lösungen

Schriftliche Subtraktion, F 7

1 46 − 24 = 22

2 22; 19; 33

3 21; 22; 120

4

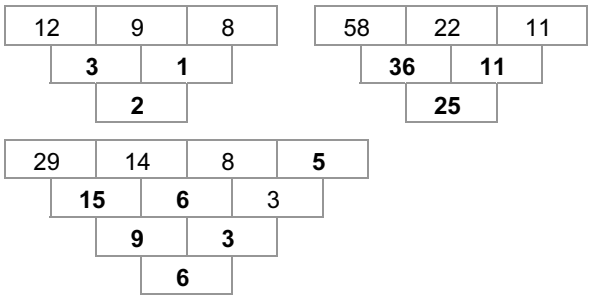

5 a) Es müssen noch 31 Schüler Fahrkarten kaufen.
b) Es bleiben noch 26 € übrig.

© Ernst Klett Verlag GmbH, Stuttgart 2015 | Alle Rechte vorbehalten.
Von dieser Druckvorlage ist die Vervielfältigung für den eigenen Unterrichtsgebrauch gestattet.